Lücken-Mauern: 3-stufig (Umkehraufgaben)

Klasse 2 · Zahlenraum bis 100 · Knobeln ()

Klasse 2 · ZR 100

Name: _____ Datum: _____

Suche ein Dreieck mit zwei bekannten Steinen und berechne den fehlenden Stein.

Tipp von Max
Fehlt ein unterer Stein? Ziehe den bekannten Nachbarstein vom oberen Stein ab!

a)

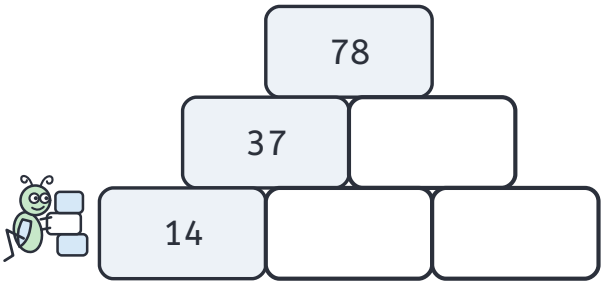

b)

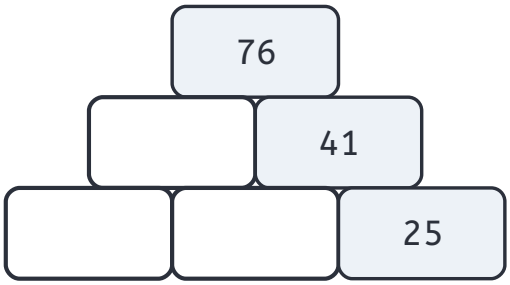

c)

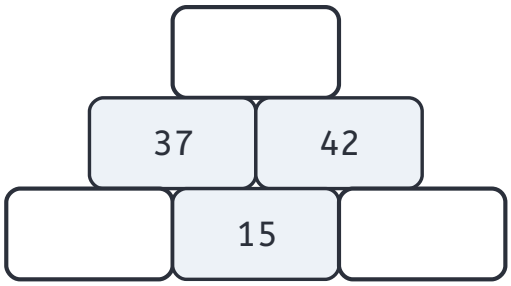

d)

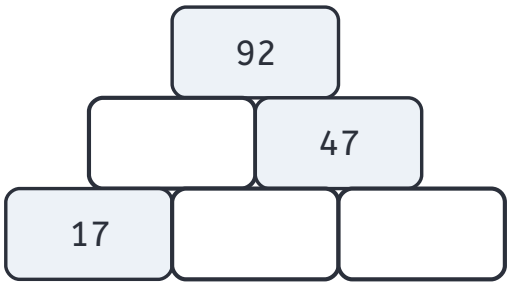

e)

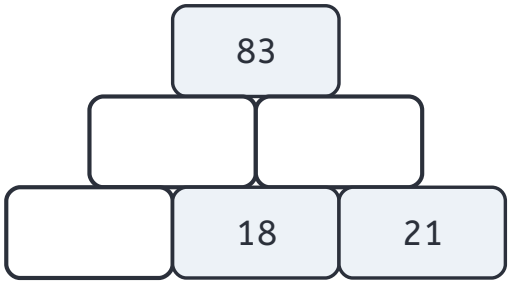

f)

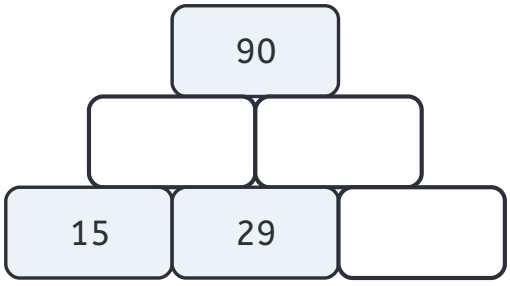

© Flip & Max · Kostenlos für Zuhause & Unterricht (nicht kommerziell)

Super gerechnet!

Lücken-Mauern: 3-stufig (Umkehraufgaben)

Klasse 2 · Zahlenraum bis 100 · Knobeln ()

Klasse 2 · ZR 100

Lösungsblatt

Name: _____ Datum: _____

Suche ein Dreieck mit zwei bekannten Steinen und berechne den fehlenden Stein.

Tipp von Max
Fehlt ein unterer Stein? Ziehe den bekannten Nachbarstein vom oberen Stein ab!

a)

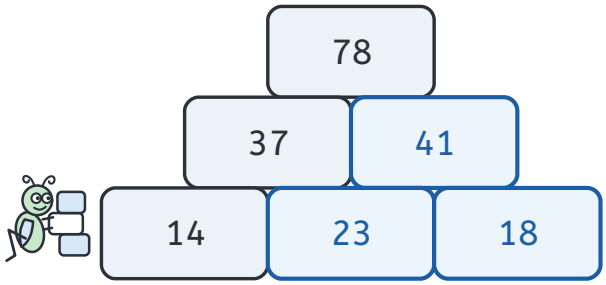

b)

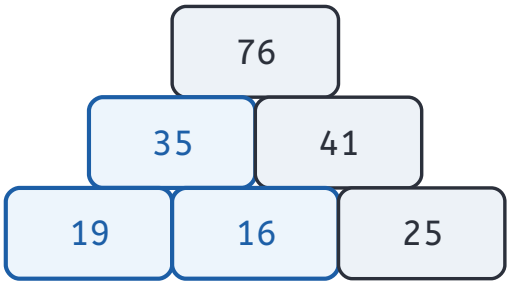

c)

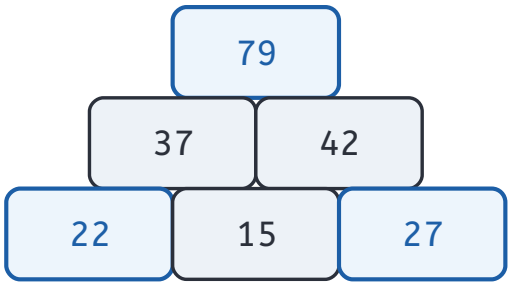

d)

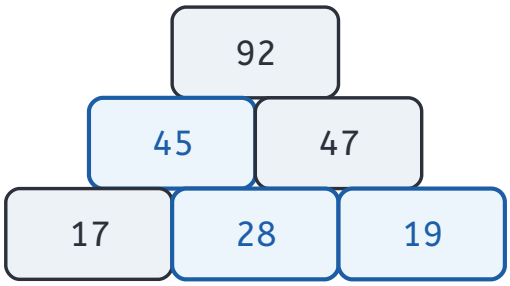

e)

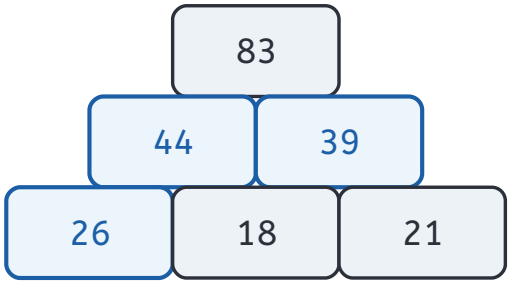

f)

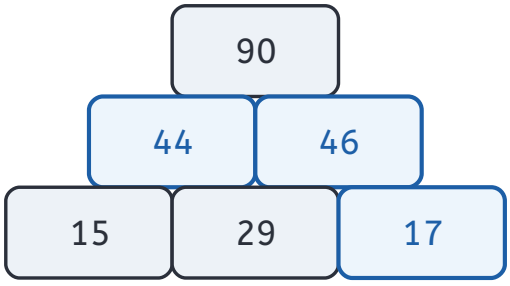

© Flip & Max · Kostenlos für Zuhause & Unterricht (nicht kommerziell)

Super gerechnet!