Rechenmauern: 3-stufig mit Übergang

Klasse 2 · Zahlenraum bis 100 · Standard ()

Klasse 2 · ZR 100

Name: _____ Datum: _____

Rechne die Steine von unten nach oben zusammen. Achte auf den Zehnerübergang!

Tipp von Max
Zerlege die zweite Zahl in Zehner und Einer, wenn du über den Zehner springst!

a)

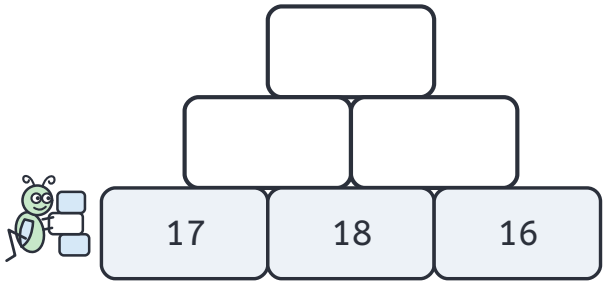

b)

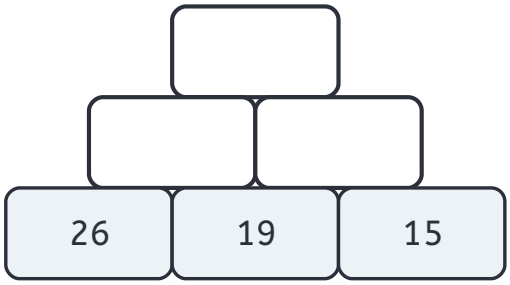

c)

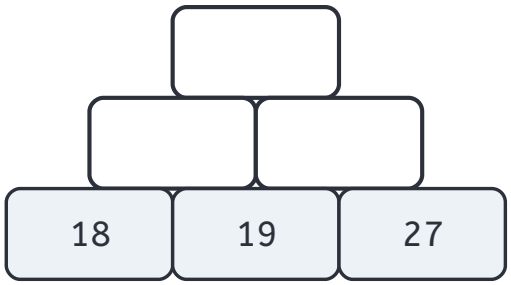

d)

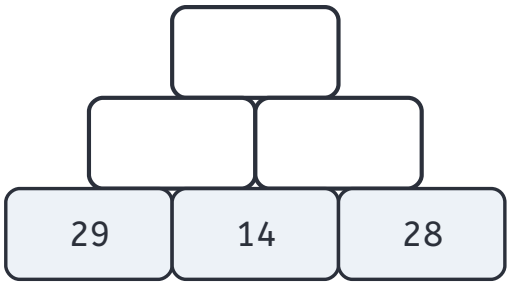

e)

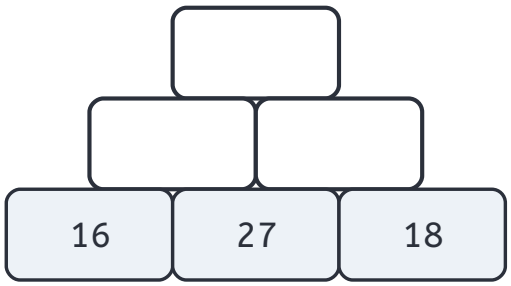

f)

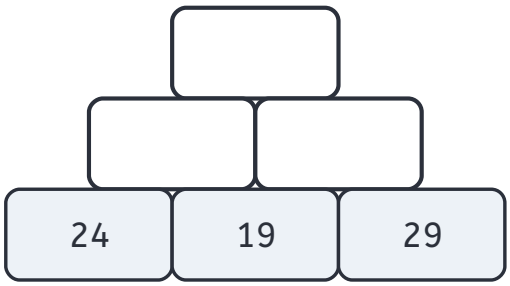

© Flip & Max · Kostenlos für Zuhause & Unterricht (nicht kommerziell)

Super gerechnet!

Rechenmauern: 3-stufig mit Übergang

Klasse 2 · Zahlenraum bis 100 · Standard ()

Klasse 2 · ZR 100

Lösungsblatt

Name: _____ Datum: _____

Rechne die Steine von unten nach oben zusammen. Achte auf den Zehnerübergang!

Tipp von Max
Zerlege die zweite Zahl in Zehner und Einer, wenn du über den Zehner springst!

a)

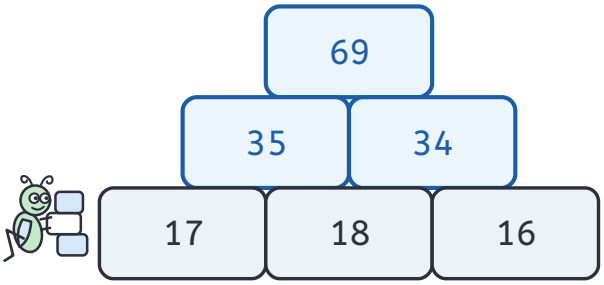

b)

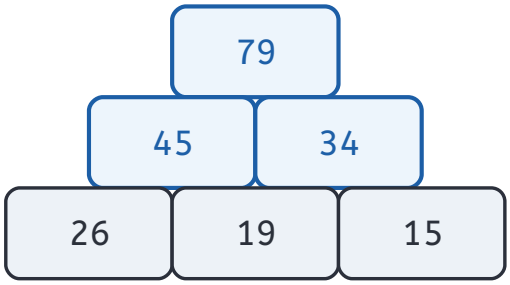

c)

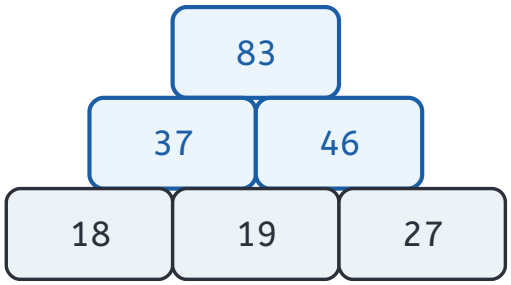

d)

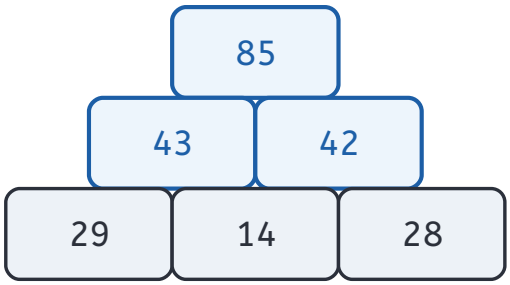

e)

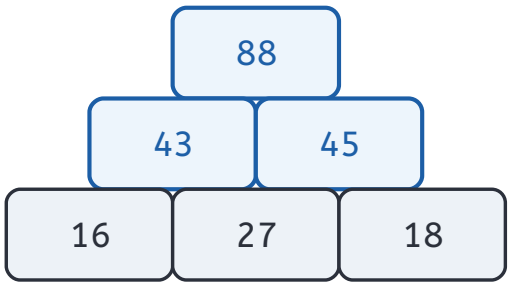

f)

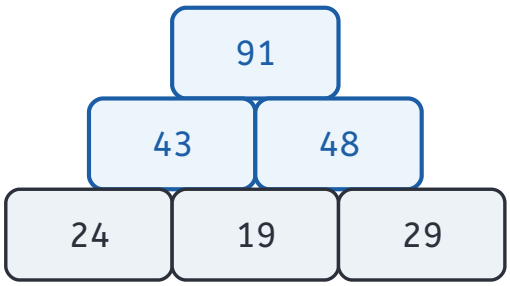

© Flip & Max · Kostenlos für Zuhause & Unterricht (nicht kommerziell)

Super gerechnet!