Rechendreiecke: Basis bis 100

Klasse 2 · Zahlenraum bis 100 · Einstieg ()

Klasse 2 · ZR 100

Name: _____ Datum: _____

Addiere immer die beiden benachbarten Innenzahlen und schreibe das Ergebnis außen an die Seite.

Tipp von Max
Jede Außenzahl ist die Summe der beiden Innenfelder, die direkt an diese Seite grenzen!

a)

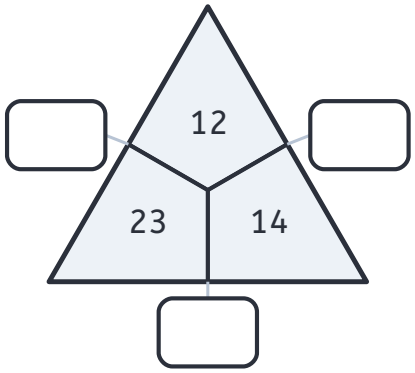

b)

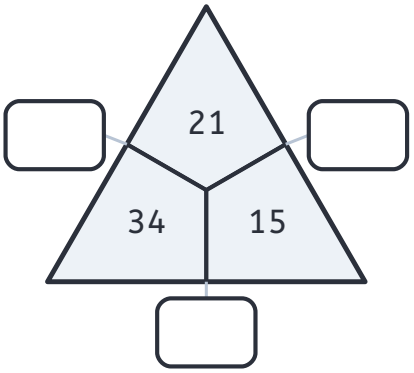

c)

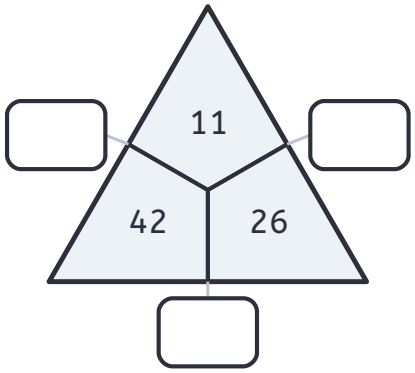

d)

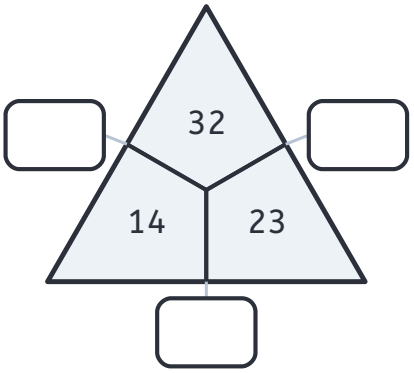

e)

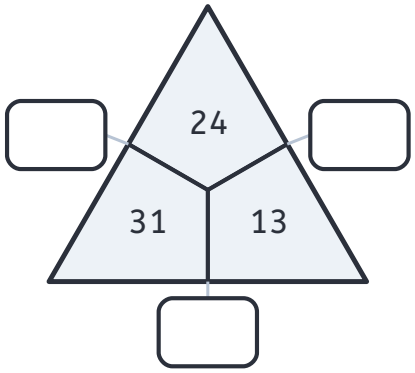

f)

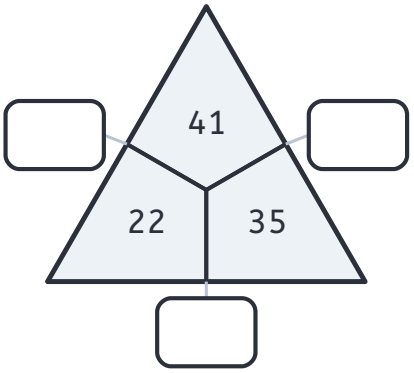

© Flip & Max · Kostenlos für Zuhause & Unterricht (nicht kommerziell)

Super gerechnet!

Rechendreiecke: Basis bis 100

Klasse 2 · Zahlenraum bis 100 · Einstieg ()

Klasse 2 · ZR 100

Lösungsblatt

Name: _____ Datum: _____

Addiere immer die beiden benachbarten Innenzahlen und schreibe das Ergebnis außen an die Seite.

Tipp von Max
Jede Außenzahl ist die Summe der beiden Innenfelder, die direkt an diese Seite grenzen!

a)

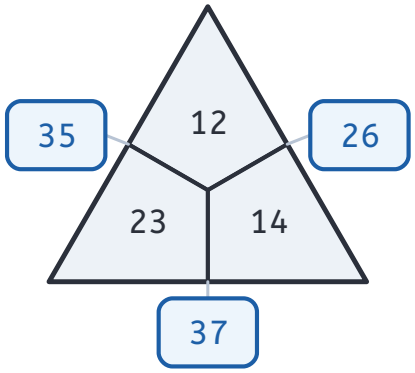

b)

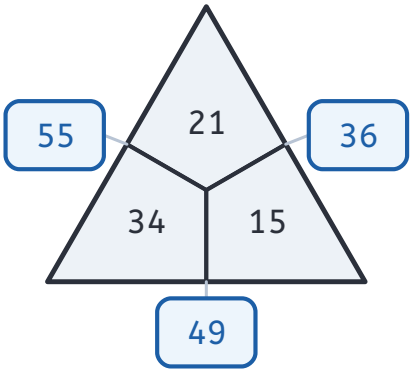

c)

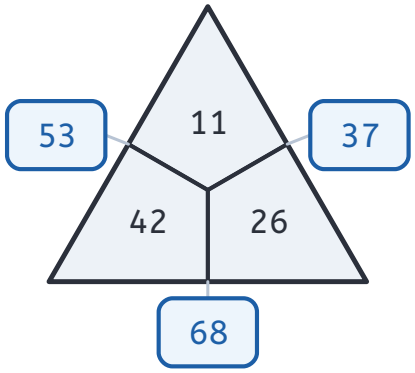

d)

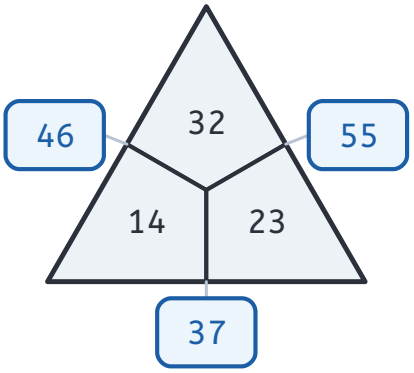

e)

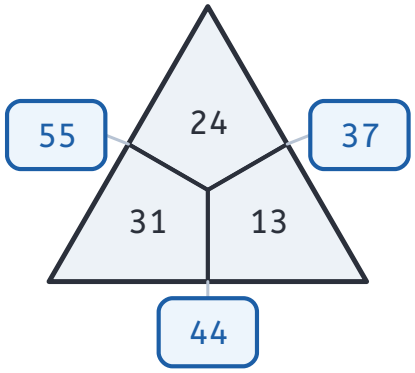

f)

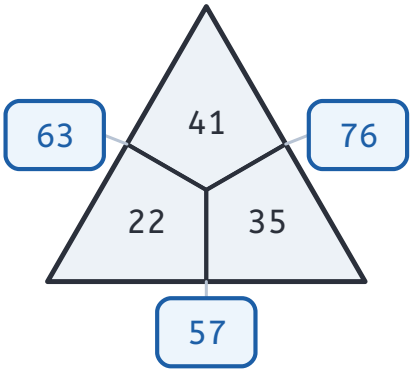

© Flip & Max · Kostenlos für Zuhause & Unterricht (nicht kommerziell)

Super gerechnet!