Punktebilder & Tauschaufgaben

Klasse 2 · Kleines Einmaleins bis 100 · Standard ()

Klasse 2 · ZR 100

Name: _____ Datum: _____

Bestimme zu jedem Punktebild beide Malaufgaben (Aufgabe und Tauschaufgabe) und trage das Ergebnis ein.

Tipp von Max
Drehst du das Punktebild, entsteht die Tauschaufgabe – die Anzahl der Punkte bleibt genau gleich!

a)



3 · 5 = ☐



5 · 3 = ☐

b)



4 · 6 = ☐



6 · 4 = ☐

c)



2 · 8 = ☐



8 · 2 = ☐

d)



5 · 7 = ☐



7 · 5 = ☐

© Flip & Max · Kostenlos für Zuhause & Unterricht (nicht kommerziell)

Super gerechnet!

Punktebilder & Tauschaufgaben

Klasse 2 · Kleines Einmaleins bis 100 · Standard ()

Klasse 2 · ZR 100

Lösungsblatt

Name: _____ Datum: _____

Bestimme zu jedem Punktebild beide Malaufgaben (Aufgabe und Tauschaufgabe) und trage das Ergebnis ein.

Tipp von Max
Drehst du das Punktebild, entsteht die Tauschaufgabe – die Anzahl der Punkte bleibt genau gleich!

a)



3 · 5 = 15



5 · 3 = 15

b)



4 · 6 = 24



6 · 4 = 24

c)



2 · 8 = 16



8 · 2 = 16

d)



5 · 7 = 35



7 · 5 = 35

© Flip & Max · Kostenlos für Zuhause & Unterricht (nicht kommerziell)

Super gerechnet!